Математика

НУШ 2 клас
Завдання для формувального оцінювання

Картка 1.

. Порівняй < = >.

5дес.3од. ☐ 4дес.7од.

8дес.4од. ☐ 7дес.3од.

6дес.9од. ☐ 9дес.1од.

1дес.6од. ☐ 2дес.2од.

1. Закінчи обчислення виразу.

75 – 23 = 75 – ☐ – ☐ = ☐ – ☐ = ☐

2. У саду росло 12 груш, яблунь — на 3 менше, а слив — на 5 більше, ніж яблунь. Скільки слив росло в саду?

45 + 37 = ☐	47 + 46 = ☐
52 – 44 = ☐	68 + 15 = ☐
73 – 15 = ☐	32 – 16 = ☐
37 + 46 = ☐	52 – 33 = ☐
94 – 67 = ☐	44 + 48 = ☐

12 + ☐ = 40 3 + ☐ = 29 7 + ☐ = 31

8 + ☐ = 39 4 + ☐ = 26 17 + ☐ = 40

Картка 2.

1. Порівняй.

72 – 43 ☐ 28 14 + 9 ☐ 32

2. В одному мішку 40 кг круп, а в другому — на 8 кг менше. Із другого мішка використали 15 кг. Скільки кілограмів круп залишилося в другому мішку?

Відповідь.

87 – 79 = ☐	66 – 49 = ☐
64 + 27 = ☐	73 + 18 = ☐
54 – 25 = ☐	37 + 57 = ☐
37 + 46 = ☐	54 – 36 = ☐
41 – 25 = ☐	21 – 17 = ☐

3 + ☐ = 31 19 + ☐ = 39 14 + ☐ = 40

2 + ☐ = 33 9 + ☐ = 40 4 + ☐ = 28

Картка 1.

Обчисли.

50 + 23 =
76 + 14 =
76 – 14 =
80 – 67 =
62 + 26 =
16 + 5 =

14 – 6 =
32 – 8 =

Обчисли.

67 + 7 =
35 – 9 =
10 + 18 =
78 + 8 =
29 – 17 =
35 + 12 =

62 – 40 =
56 + 24 =

Яся вирізала 8 сніжинок, Марина — 7, а Настя вирізала стільки, скільки Яся та Марина разом. Скільки сніжинок вирізали всі дівчата разом?

Розв'язання:

❷ У конкурсі малюнків брали участь 28 дівчаток, а хлопчиків на 8 менше. Скільки всього дітей брало участь у конкурсі?

Відповідь:

Картка 2.

1. Замість ☐ постав знак “>”, “>” або “=”.

7 + (3 + 4) ☐ 14 15 – (10 – 3) ☐ 9 4 ☐ 12 – 5 – 7

2. На першу автомашину навантажили десять десятків труб, а на другу — шість десятків. На скільки труб більше навантажили на першу автомашину, ніж на другу?

Відповідь.

45 + 37 =
. . + .

45 + 37 =
. + . .

45 + 37 =
. . + . . + .

51 – 23 =
. . + .

51 – 23 =
. . + .

51 – 23 =
. . + . . . + .

Доданок	14	15		17		26	
Доданок	16		23	5	42	7	34
Сума		17	39		83		65

Картка 5.

Обчислити приклади

66-13 90-24

72-14 32+18

75-34 81-24

15+34 45+15

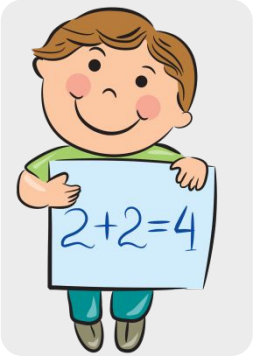

Задача

Було – 38 м

Відрізали – 12 м і 14 м

Залишилось -?м

Де треба поставити дужки, щоб рівності були правильними?

18-6+3=9 11-6-1=6

Картка 6.

Задача

В коробці лежало 20 кольорових олівців і кілька простих. Всього в коробці було 28 олівців. Скільки простих олівців лежало в коробці?

Обчислити приклади

86+7= 24+8=

62+9= 85+7=



52-18 72-18

82-18 52-17

Картка 1.

2. В одному бідоні було 22 літри молока, а в другому — на 5 літрів більше. Скільки літрів молока було в двох бідонах?

Вираз.

Відповідь.

49 – 6 = ☐☐ 22 + 37 = ☐☐ 57 – (8 + 6) = ☐☐

98 – 80 = ☐☐ 61 + 8 = ☐☐ 36 + (19 + 1) = ☐☐

Порівняй.

56 – 50 ☐ 51 37 – 15 ☐ 22 34 + 22 ☐ 34 – 22

У класі навчалося 22 учні. У новому навчальному році в клас прибуло 5 нових учнів, а 2 учні перейшли в інші школи. Скільки учнів стало в класі?

Відповідь: ☐

Картка 2.

Обчисли.

81 + 9 = ☐☐ 24 – 7 = ☐☐

79 + 8 = ☐☐ 27 – 9 = ☐☐

34 + 8 = ☐☐ 21 – 3 = ☐☐

68 – (14 – 9) = ☐☐

68 + 7 – 40 = ☐☐

56 + 5 – 60 = ☐

З'єднай вирази з їх значеннями.

60 – 6	♦	♦	64
72 – 8	♦	♦	54
24 + 9	♦	♦	33

Розв'яжи задачу.

За три дні робітник мав виготовити 92 деталі. Першого дня він виготовив 32 деталі, другого — 41. Скільки деталей робітник повинен виготовити третього дня?

Картка 1.

1. Обчисли.

43 + 9 = ☐☐ 75 − 6 = ☐☐

19 + 8 = ☐☐ 73 − 8 = ☐☐

35 + 8 = ☐☐ 27 − 9 = ☐☐

15 + 5 + 17 = ☐☐

21 − 3 + 8 = ☐☐

68 + 7 − 40 = ☐☐

2. Знайди значення виразу 34 + a, якщо a = 7, a = 9.

3. Розв'яжи задачу.

У саду росло 28 яблунь, вишень — на 9 менше, ніж яблунь, а груш — на 13 більше, ніж вишень. Скільки груш росло у саду?

Картка 2.

1. Обчисли.

75 + 6 = ☐☐ 90 − 5 = ☐☐

73 + 8 = ☐☐ 65 − 8 = ☐☐

65 + 6 = ☐☐ 36 − 7 = ☐☐

86 + 8 − 50 = ☐☐

40 − (16 − 8) = ☐☐

23 − (7 + 9) = ☐

2. Знайди і виправ помилки.

45 + 9 = 54 24 − 7 = 20

87 + 7 = 84 75 − 19 = 56

72 + 9 − 20 = 101

20 − (13 − 5) = 12

3. Розв'яжи задачу двома способами.

Будинок ремонтували 32 робітників. Прийняли ще 7 теслярів і 9 штукатурів. Скільки робітників тепер ремонтують будинок?

Картка 1.

Обчисли зручним способом.

6 + (90 + 2) = □□
60 + (30 + 5) = □□
3 + (50 + 20) = □□
40 + (6 + 30) = □□
5 + (3 + 20) = □□
30 + (5 + 4) = □□

97 – (5 + 2) = □□
82 – (60 + 2) = □□
45 – (2 + 3) = □□
76 – (5 + 1) = □□
49 – (3 + 10) = □□
87 – (60 + 20) = □

. В якому гаманці більше грошей? Обведи його.

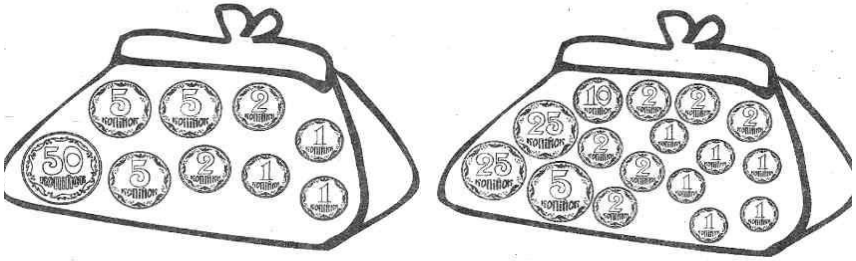

. Обчисли зручним способом.

(80 + 4) + 2 = □□
(5 + 4) + 60 = □□
(70 + 2) + 10 = □□
(5 + 40) + 3 = □□
(30 + 20) + 4 = □□

(43 + 52) – 61 = □□
(9 + 60) – 5 = □□
(90 + 7) – 2 = □□
(50 + 4) – 30 = □□
(9 + 60) – 10 = □□

Картка 2.

1. Обчисли вирази запропонованими способами (використовуй підказки).

(40 + 20) + 8 = □□ + □ = □□

(6 + 3) + 90 = □ + □□ = □□

(20 + 3) + 60 = □□ + □ = □□

(3 + 50) + 20 = □□ + □ = □□



2. Заповни таблицю.

Зменшуване	86	□□	67	39	89	□□	95	54	79	□□
Від'ємник	□	5	□	3	□	6	□	3	□□	7
Різниця	84	34	62	□□	87	73	93	□□	25	32

Встав знак >, < або =.

50 + 40 □ 80
34 + 25 □ 78
90 – 30 □ 50
89 – 62 □ 29

78 – 35 □ 46
60 – 20 □ 30
43 + 43 □ 99
21 + 14 □ 36

70 + 20 □ 80
88 – 46 □ 42
54 + 34 □ 96
40 – 10 □ 50

Доданок	15	13		18		26	
Доданок	16		27	5	48	8	33
Сума		17	39		83		65

Картка 1.

На стоянці 19 машин. З них 4 чорні, 3 білі, решта — червоні. Скільки червоних машин на стоянці?

Відповідь:

. У вазі 12 фруктів. З них 5 персиків, 2 апельсини, а решта — груші. Скільки груш у вазі?

Відповідь:

. У класі 30 учнів. У вихідні 11 дітей катались на ковзанці, а 14 — на лижах. Скільки школярів провели вихідні вдома?

Відповідь:

. У магазині «Турист» було 26 рюкзаків. За день магазин продав 6 дорослих і 3 дитячі рюкзаки. Скільки рюкзаків залишилося в магазині?

Відповідь:

Картка 2.



. Обчисли.

34 + 7 = ☐☐
15 + 9 = ☐☐
69 + 7 = ☐☐

55 − 6 = ☐☐
76 − 8 = ☐☐
70 − 6 = ☐☐

56 + 4 − 7 = ☐☐
46 + 6 − 3 = ☐☐
15 − 7 + 4 = ☐☐

. Склади, запиши й обчисли вирази.

а) Суму чисел 32 і 9 зменшити на 11.
б) До числа 45 додати різницю чисел 26 і 8.

. Розв'яжи задачу.

На склад привезли 35 соснових колод, березових — на 6 колод менше. 20 березових колод розпиляли. Скільки березових колод залишилося на складі?

Картка 1.

Яка маса гусака?

1)

2)

Вираз:

Відповідь:

Обчисли вирази.

20 – 0 =	(30 + 20) – 10 =
45 – 45 =	(40 + 20) – 20 =
98 – 12 =	(34 + 15) – 11 =
59 – 33 =	(56 + 13) – 13 =
25 – 13 =	10 – (7 + 1) =
78 – 42 =	68 – (21 + 11) =

Картка 2.

Скільки всіх було голів?

Жили у бабусі
Коти, качки і гуси,
Ще й курочки рябенькі. Всіх...
Самі рахуйте, скільки їх.
Котів і качок разом — сім,
Гусей і качок — також сім,
А курочок було... Мовчок!
Скажу лиш: стільки ж, як качок.

3. Знайди периметр прямокутника зі сторонами завдовжки 3 см і 5 см.

4. Фермер налив бідон молока місткістю 39 л і два відра місткістю по 12 л. На скільки літрів молока більше у бідоні, ніж у відрах?

Бідон – 39 л
2 відра по 12 л
На ? більше

1)

2)

Вираз: □□ – (□□ + □□) = □□ (л)

Відповідь: