Путешествие по Солнечной системе

Меркурий

Решите уравнение

$b + 35 = 67$		
34	32	102
Б	П	Т

Решите уравнение

$235 + a = 305$		
84	70	75
А	У	Я

Решите уравнение

$y - 135 = 207$		
342	72	352
С	З	В

Решите уравнение

$150 - a = 83$		
63	67	77
В	Т	Ж

Решите уравнение

$y - 63 = 78$		
15	131	141
О	Е	Ы

Решите уравнение

$x + 72 = 119$		
54	191	47
П	М	Н

Решите уравнение

$195 - t = 13$		
182	208	165
Я	Ю	В

Проверьте себя

П У С Т Ы Н Я



Марс

Решите уравнения

1) $138 + x + 57 = 218;$

2) $248 - (y + 123) = 24;$

3) $(24 - x) + 37 = 49;$

4) $(y + 263) - 97 = 538;$

5) $169 + (87 + n) = 303.$

Проверьте себя

47	101	54
23	108	78
12	372	132



Солнце

Задача

Скорость вращения Марса – 24 км/с, скорость вращения Меркурия – 48 км/с. Сравните скорости вращения Меркурия и Марса.

Венера

Задача

Уран и Нептун, почти одинаковые по размерам, их называют планетами близнецами. Если число спутников Нептуна увеличить на 12, и от этой суммы отнять 2, то получите число спутников Урана, которое равно 18. Найдите число спутников Нептуна.

Земля

Проверьте себя

1 вариант	2 вариант
1. Б	1. А
2. А	2. В
3. В	3. Б
4. Б	4. А

Домашнее задание

№ 368 (г),

№ 369 (в),

№ 387 (в)



Спасибо за работу!