Урок математики
во 2 классе
«Свойства сложения»

16-9+8= 15

17-9+5= 13

12-(3+9)= 0

18-(12- 4)= 10

18-9+5= 14

15-7+8= 16

2 5 9 12



60+20 =



васильков

15- 7 + 2 =

ромашки

14 – 9+ 7=

колокольчиков

16–8+ 5 =

маков

На витрине в магазине было 18 яблок. Красная Шапочка купила несколько яблок и осталось 10 яблок. Сколько яблок купила Красная Шапочка?

Было - 18 яб.

Купила - ?

Осталось – 8 яб.

18- 10 =8 (яб.)

ОТВЕТ: 8 ЯБЛОК ОСТАЛОСЬ.

Сравните

2дм 1 см > 12см

21 СМ > 12 СМ

38 мин < 1 час

38 МИН < 60 МИН

Сравни выражения и их значения

5+3 ▭ 3+5

▭

9+2 ▭ 2+9

▭

ОТ ПЕРЕСТАНОВКИ СЛАГАЕМЫХ

СУММА НЕ ИЗМЕНЯЕТСЯ

Результат сложения не изменится, если соседние слагаемые заменить их суммой

$$(5+3)+2 = 5+(3+2)$$

Найдите значение выражения

6+7+8+9+3+4+1+2= 40

(6+4)+(7+3)+(8+2)+(9+1)= 40

40 = 40

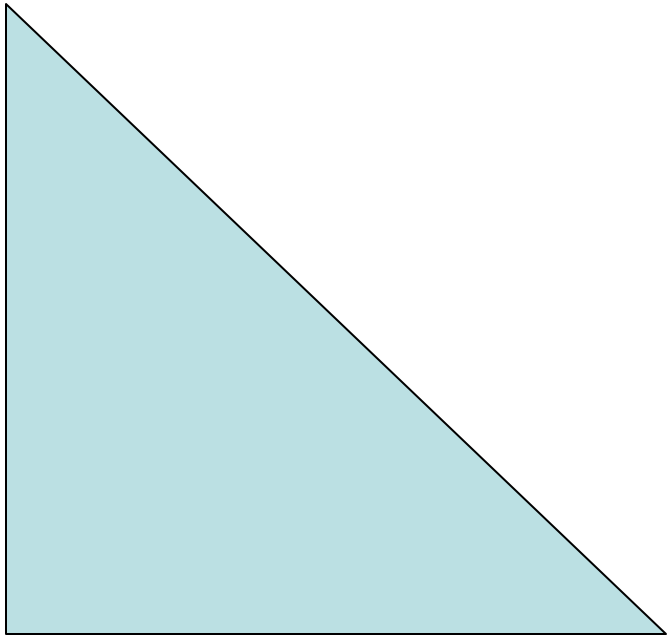

Периметр – **это сумма длин всех сторон фигуры.**

Тест

- 1. Сравни выражения и отметь правильный ответ:

8 + 10 * 10 + 8

А) < Б) > В) =

- 2. Отметьте выражение, которое можно сложить удобным способом

А) 16-9+8 Б) 7+8+3+2 В) 18-(12- 4)

- 3.Найди число, в котором 5 десятков и 3 единицы.

А) 35 Б) 63 В) 53

Домашнее задание

с.40 № 5