«Разминка для мозгов».

Умножение на 25, на 125.

НА 25:

- 32 *25= 800
- 2,4*25= 60
- 3,6*2,5= 9
- 33*25= 825
- 23*2,5= 5,75
- 1,3*2,5= 3,25

НА 125:

- 16*125= 2000
- 3,2*125= 400
- 6,4*12,5= 80
- 0,24*12,5= 3
- 48*1,25= 60
- 56*125= 7000
- 7,2*1,25= 9

Умножение на 11:

- 32*11 = 352
- 27*11= 297
- 45*11= 495
- 43*11= 473
- 8,1*11= 89,1
- 2,6*1,1= 2,86
- 5,6*11= 61,6
- 7,8*1,1= 8,58

Умножение на 0,5:

- 32 * 0,5 = 16
- 124 * 0,5 = 62
- 248 * 0,5 = 124
- 84 * 0,5 = 42
- 18 * 0,5 = 9
- 488 * 0,5 = 244
- 126 * 0,5= 63

Углы. Прямой и развернутый углы.

Назвать углы.

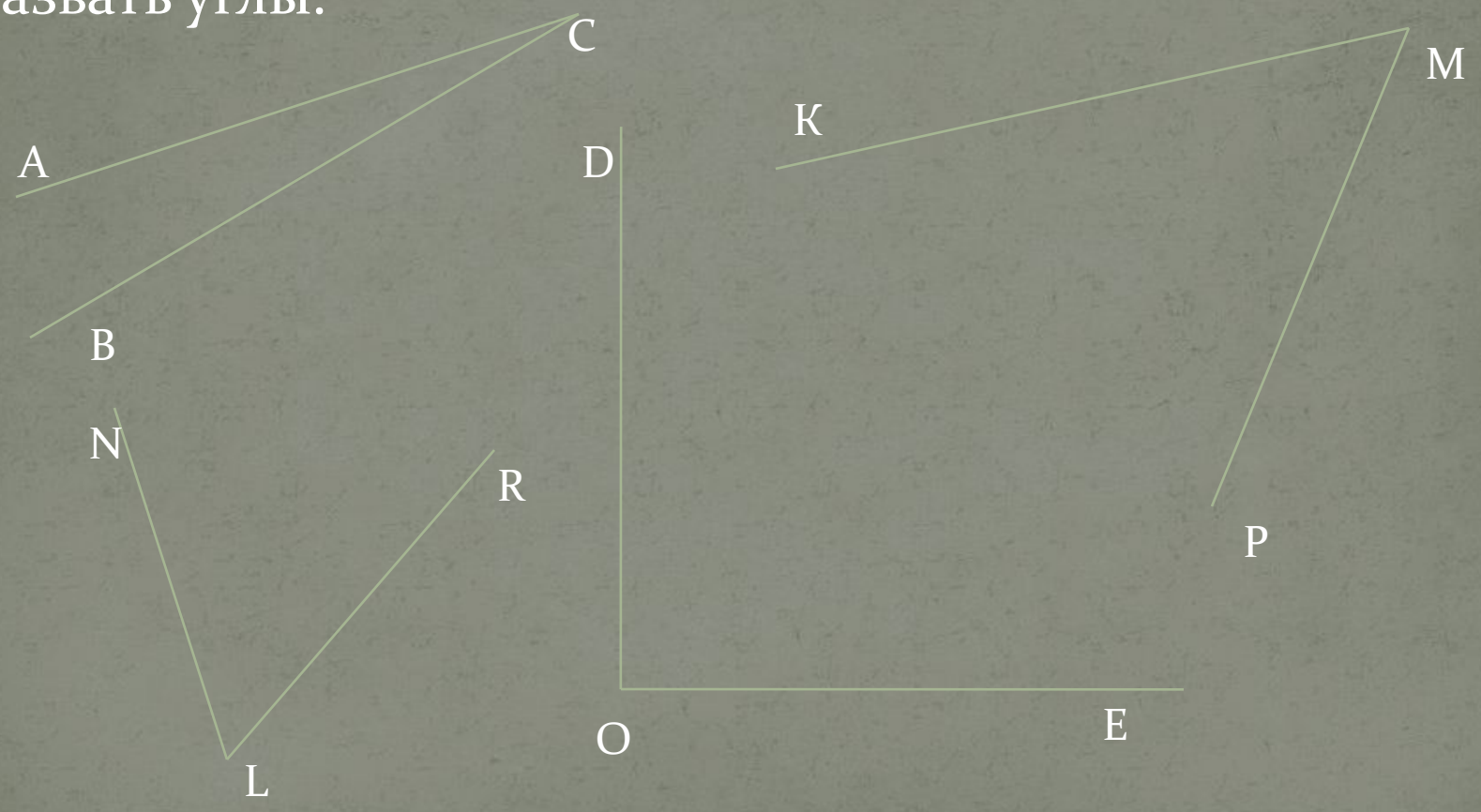

Назвать все углы на рисунке.

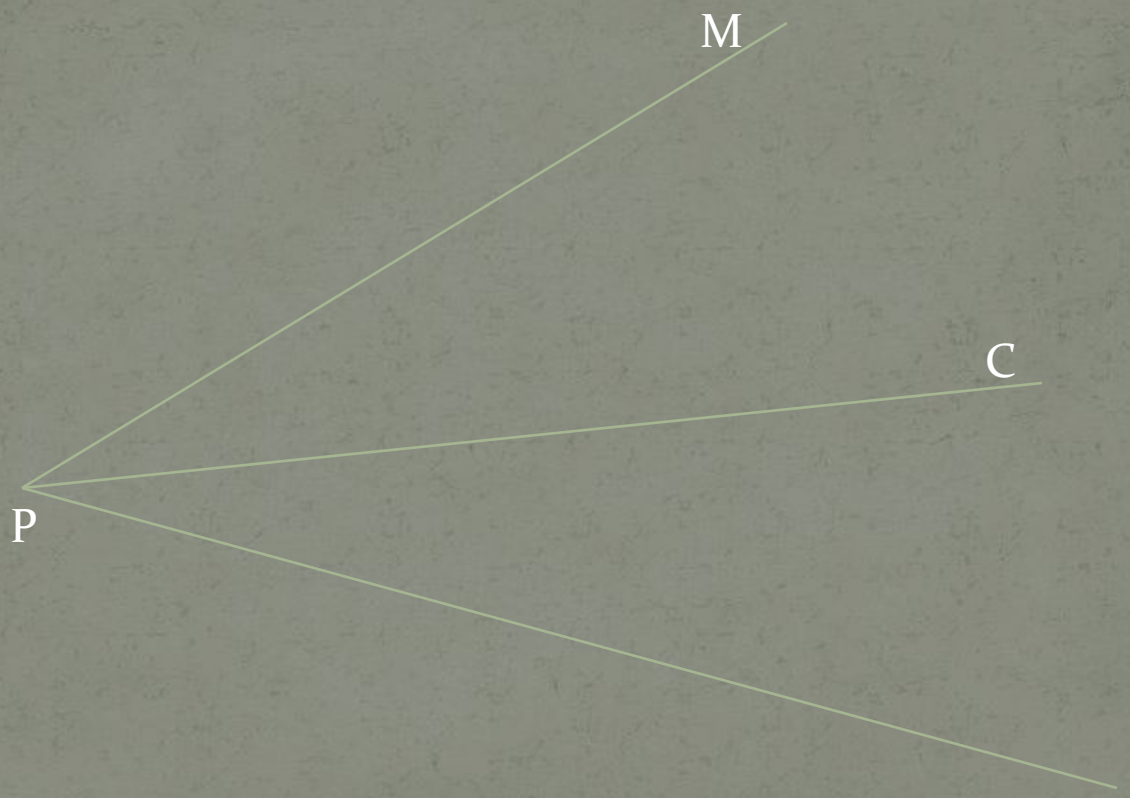

Углы CPM, CPK, MPK или

$\angle CPM, \angle CPK, \angle MPK$

Прямой угол.



$\angle ABC$ **-прямой.**

Развернутый угол.

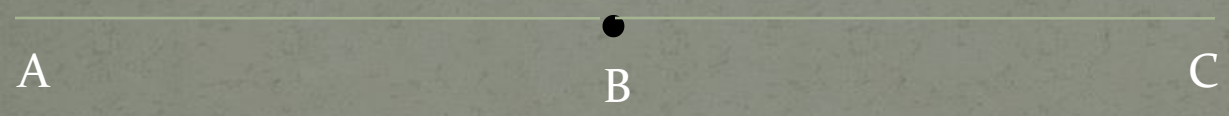

$\angle ABC$ -развернутый

Теория!

- Какая фигура называется углом?
- Углом называется фигура , состоящая из двух РАЗЛИЧНЫХ лучей , исходящих из одной точки.
- Два луча , образующие одну прямую, составляют
- развернутый угол.
- Какие углы называются равными?
- Которые совпадают при наложении.

Математику уже затем учить надо, что она ум в порядок приводит.

М. В. Ломоносов

- Спасибо за работу!
- Молодцы!