ПОЗНАНИЕ МИРА

ШКОЛА 240

УЧ. НАЧ. КЛАССОВ

Мамедова Эльмира

Тема : Наши национальные денежные знаки.

Стандарт

2.2.4. Различает национальные денежные знаки по их номинальной стоимости.

Цель

1. свободно различает национальные денежные знаки , манаты и гяпики по их номинальной стоимости.

2. Производит расчеты с деньгами.

Интеграция

Математика 1.1.1., 4.2.3.

Русский язык 1.2.4.

Они изготовлены из бумаги или металла

Они лёгкие

Ими что-то покупают

ДЛЯ ЧЕГО НУЖНЫ ДЕНЬГИ ЛЮДЯМ?

История возникновения денег

Первые монеты

687г. до н.э.

Первые бумажные деньги - ассигнации



812г. до н.э.

CLIPARTO CLIPARTO CLIPART

A54068481
1
BIR MANAT
1

AZƏRBAYCAN MILLI BANKI
1
BIR MANAT
1 MANAT

A66270175
5
BEŞ MANAT
5

AZƏRBAYCAN MILLI BANKI
5
BEŞ MANAT
5 MANAT

A58635212
10
ON MANAT
10

AZƏRBAYCAN MILLI BANKI
10
ON MANAT
10

A48988605
20
İYİRMİ MANAT
20

AZƏRBAYCAN MILLI BANKI
20
İYİRMİ MANAT
20
20 MANAT

A01805522
50
ƏLLI MANAT
50

AZƏRBAYCAN MILLI BANKI
50
ƏLLI MANAT
50
50 MANAT

A08736641
100
YÜZ MANAT
100

AZƏRBAYCAN MILLI BANKI
100
YÜZ MANAT
100
100 MANAT

Все за работу!

Рабочий лист № 1

1)соедините банкноту и денежную единицу на ней:

Дворец Ширваншахов и Девичья башня

Азербайджанские народные инструменты

Символы могущества- меч , шлем и щит. Символ мира – цветок «Хары Бюль-бюль»

Фасад здания музея Азербайджанской литературы имени Низами Гянджеви

2) Сделайте фонетический разбор слова МАНАТ

М -

А -

Н -

А -

Т -

3) Мама дала Фархаду 1 манат. Он купил **а 30 гяпиков,**  **по 20 гяпиков. Сколько сдачи получил Фархад?**

Решение:

Рабочий лист № 2

1)Восстановите пословицу:

НЕ ИМЕЙ … … , А ИМЕЙ … ….

2) Какая банкнота символизирует образование и будущее государства?

(наклей)

3) В ***у Лейлы имеются монеты . 3 монеты по 20 гяпиков и 2 монеты по 50 гяпиков. Какие из изображенных предметов Лейла может купить на эти деньги?***

Решение:

40 гяпик

1манат 80 гяпик

1 манат

Рабочий лист № 3

1)Наклейте бумажные знаки по убывающей и отнимите их:

2)На какой банкноте изображены народные инструменты Азербайджана?

(наклей)

3)Разыграйте сценку: «Купля-продажа»

Рабочий лист № 4

1)Напишите значения монет по нарастающей и сложите их:

__ __ __ __ __ __ = ____

Сравни: 1 манат ☐ ____

2) На какой азербайджанской банкноте изображен цветок

«Хары- Бюльбюль» занесенный в красную книгу и произрастающий в Нагорном Карабахе

(наклей)

3) Восстановите пословицу:

«Мал , да дорог»



А теперь отдохнём!

Блиц-опрос

Где хранить деньги?

Итог и обобщение



500
500 EURO

Домашнее задание

Ознакомьтесь с денежными знаками других стран.