Сложение и вычитание в пределах 10



Приемы вычислений

1 класс Моро

Пчарева Л.П. БОШ № 2 Барнаул

Разминка на смекалку

1.Мама купила 4 ленты красного и голубого цвета. Красных лент было больше, чем голубых. Сколько лент каждого цвета купила мама? (3 крас

2.На березе сидели две вороны и смотрели в разные стороны.

– У тебя, – говорит первая ворона, – лапки в грязи.

– А у тебя, – отвечает вторая, – клюв в земле.

– Как же так? Смотрят в разные стороны, а друг друга видят?



Измерь длину отрезков и сравни длины

8 см < 9 см

VII

10-1*8 > 7+1*9

4+1*5 = 7-1*6

1+0*0 > 2-0*0

Какие фигуры пропущены?

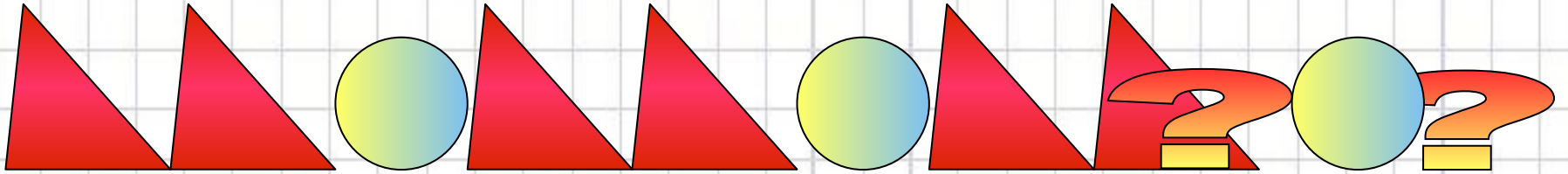

Найди ответ в конце цепочки

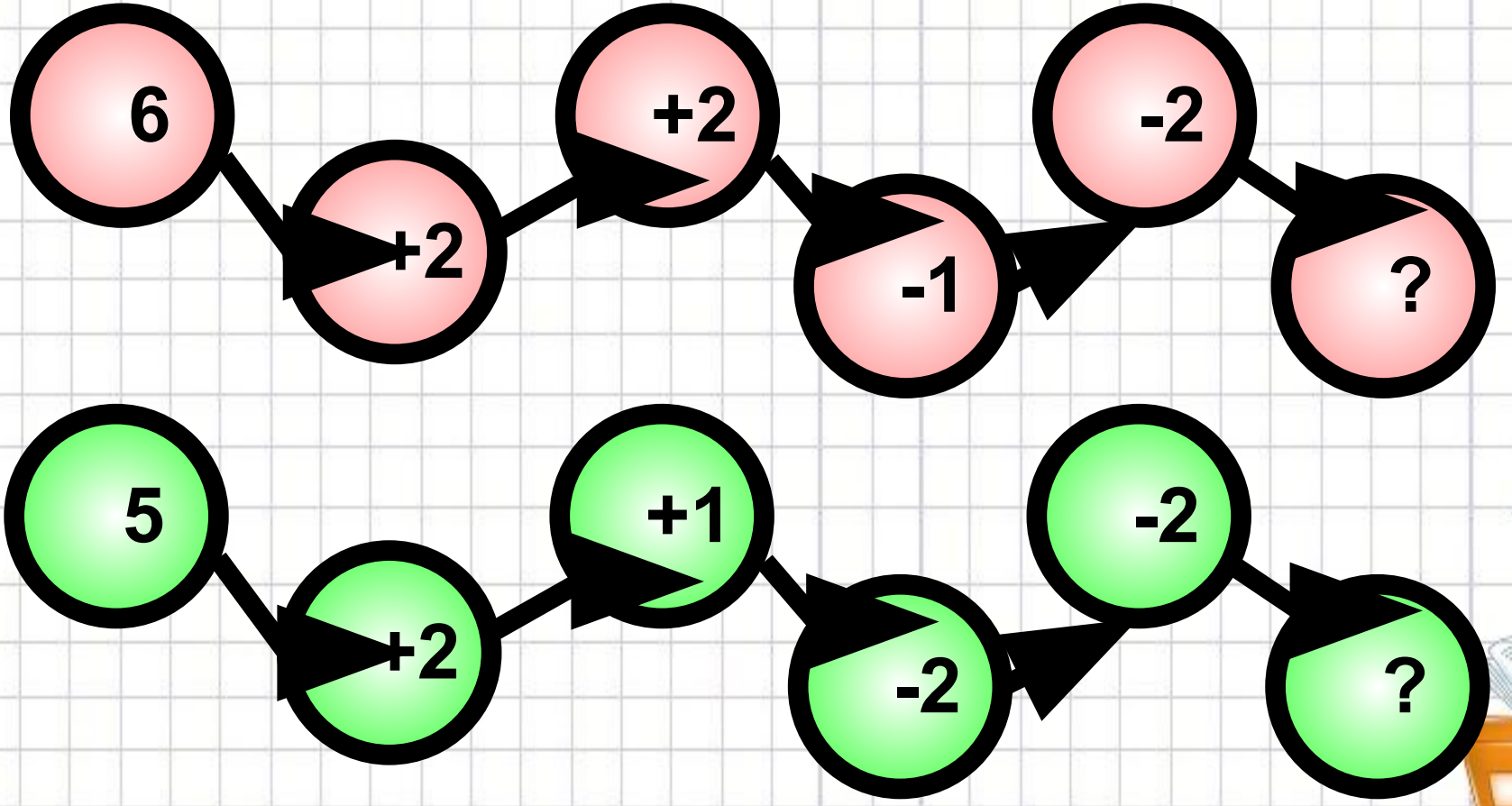



3 + 2 = 5

3 - 2 = 1

2 - 1 = 1

2 + 1 = 3

Пока Миша с мамой ждали свой поезд, прошло 3 товарных поезда и 2 скорых. Сколько всего поездов прошло?

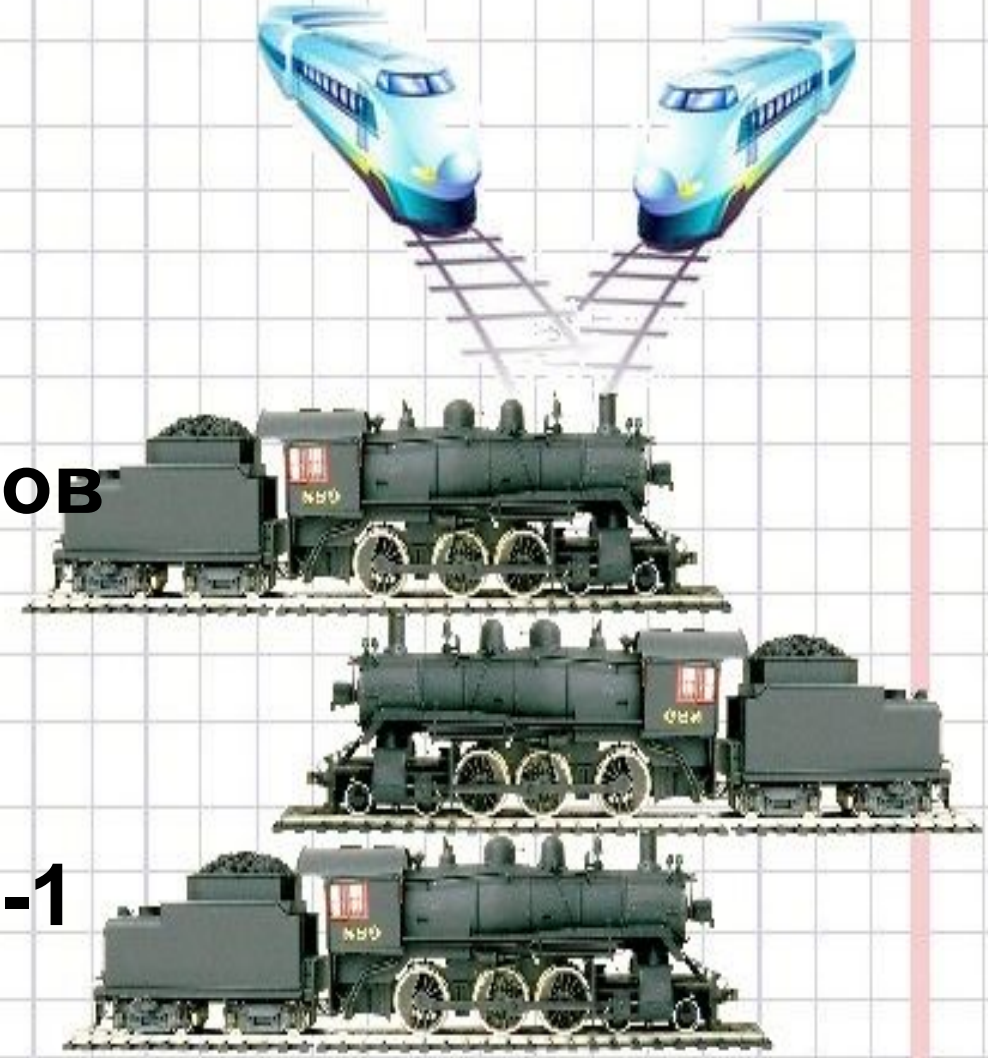

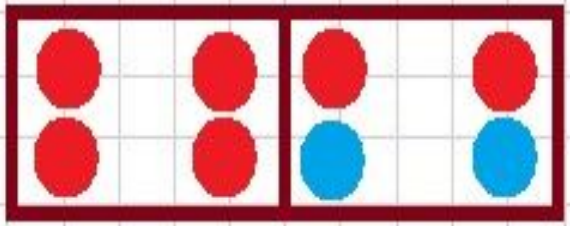

8-2 8-1-1

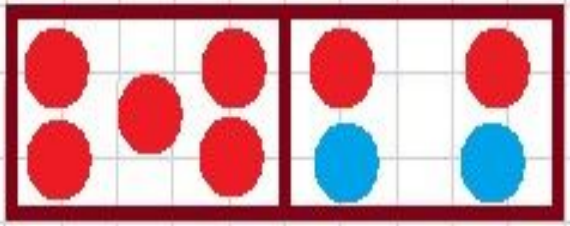

9-2 9-1-1

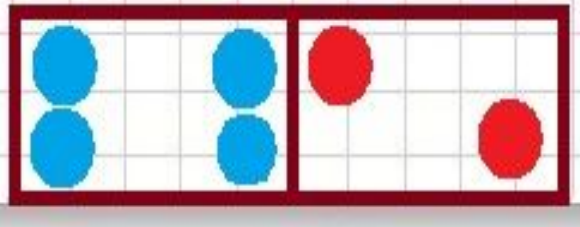

4+2 4+1+1

В пруду купались 2 взрослых человека и двое детей. Сколько всего людей купалось в пруду?

У Вали было

Она съела 2 конфеты. Сколько конфет осталось у Вали?



$\square - 2$ $\square + 2$

6 6

6-1-1 6+1+1

Спасибо

за урок