РЕЧНЫЕ СИСТЕМЫ ДОНБАССА

ВЫБРАТЬ, КАКИЕ ОБЪЕКТЫ ОТНОСЯТСЯ К ВНУТРЕННИМ ВОДАМ:

море	пролив	водохранилище
озеро	ледник	океан
река	болото	подземные воды
залив	канал	вечная мерзлота

ВЫБРАТЬ КЛЮЧЕВЫЕ СЛОВА ДЛЯ ОПРЕДЕЛЕНИЯ ПОНЯТИЯ «РЕКА»:

водный поток	русло	рыба
постоянный	временный	лодка
песчаный пляж	природное углубление	искусственное понижение

РЕКА - постоянный водный поток, протекающий в выработанном им природном углублении - русле

СТРОЕНИЕ РЕЧНОЙ ДОЛИНЫ

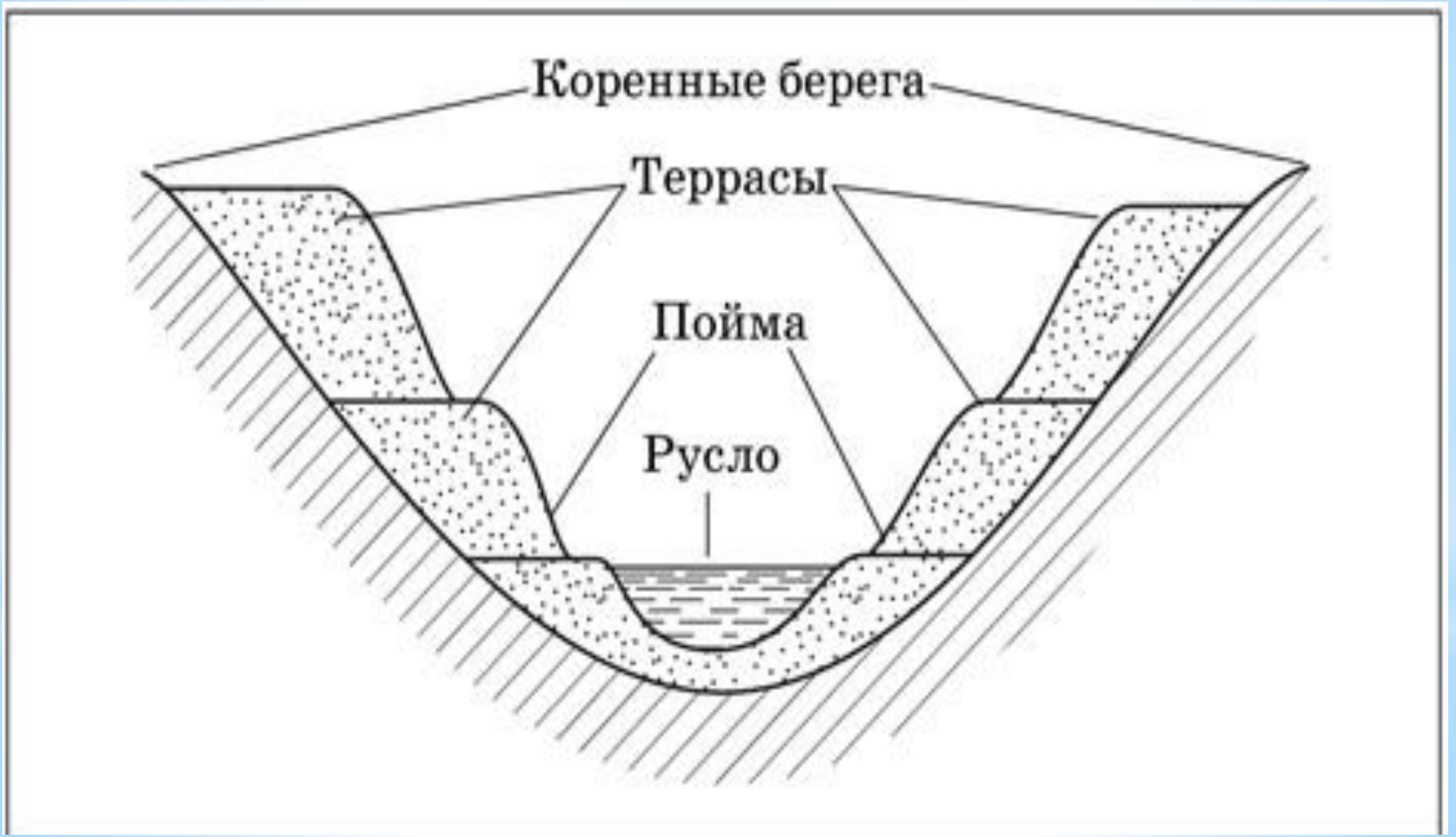

СТРОЕНИЕ РЕЧНОЙ СИСТЕМЫ

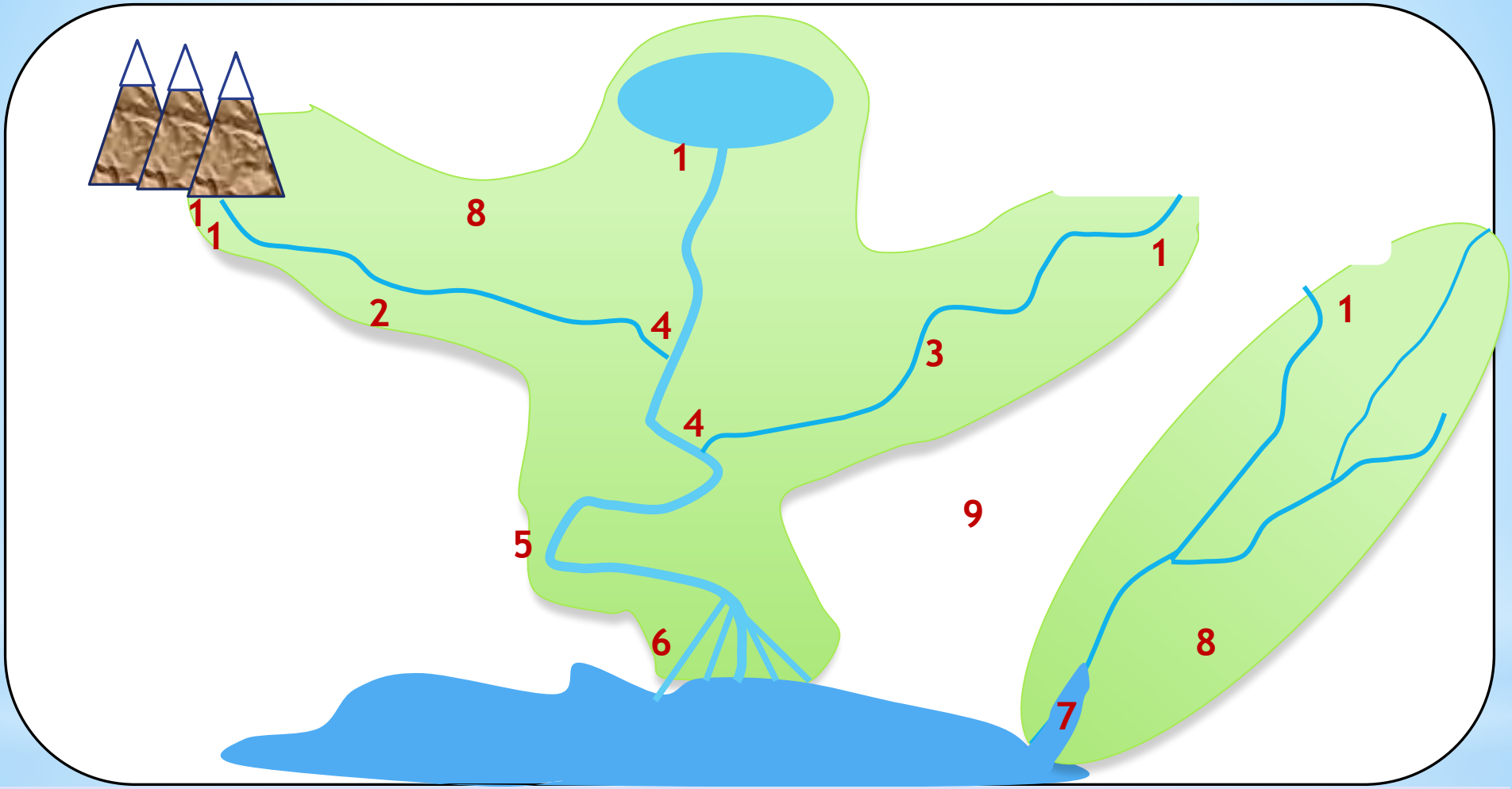

Установить соответствие между частью речной системы и числовым обозначением на схеме

Исток	1	Меандр	5	Дельта	6	Пр.приток	2
Устье	4	Водораздел	9	Эстуарий	7	Л. приток	3

Речная система 8

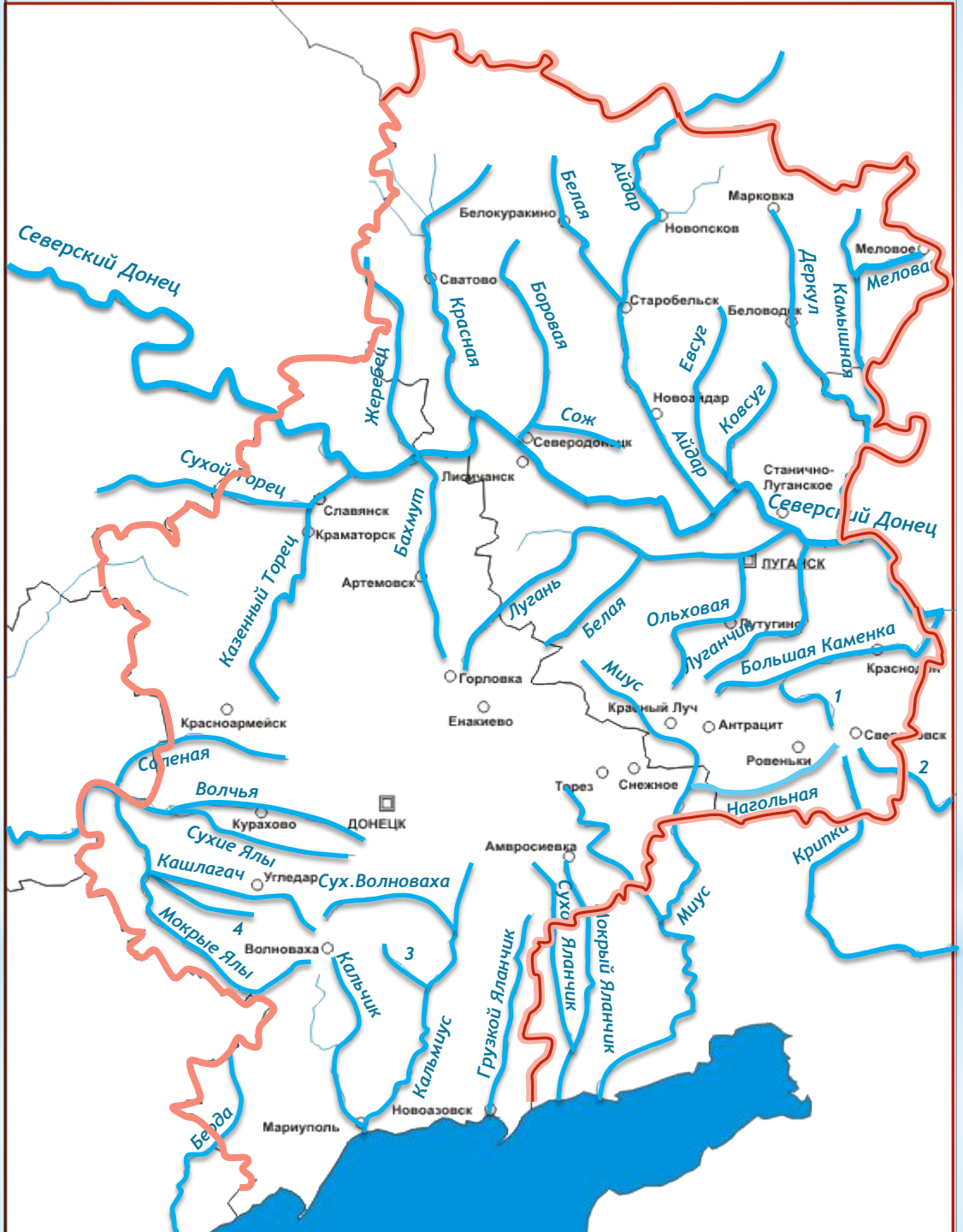

Северский Донец
Белокуракино
Белая
Айдар
Марковка
Новопсков
Меловое
Мелова
Деркул
Камышная
Сватово
Красная
Боровая
Старобельск
Беловодск
Евсуг
Жеребец
Новоайдар
Ковсуг
Сож
Северодонецк
Айдар
Станично-Луганское
Северский Донец
Сухой Торец
Лисичанск
Славянск
Краматорск
Бахмут
Казенный Торец
Артемовск
ЛУГАНСК
Лугань
Белая
Ольховая
Луганчик
Большая Каменка
Горловка
Миус
Красный Луч
Антрацит
Красноармейск
Енакиево
Ровеньки
Соленая
Торез
Снежное
Волчья
Нагольная
Курахово
ДОНЕЦК
Сухие Ялы
Амвросиевка
Крипка
Кашлагач
Угледар
Сух.Волноваха
Миус
Мокрые Ялы
Волноваха
Кальчик
Грузкой Яланчик
Сухой Яланчик
Мокрый Яланчик
Кальмиус
Новоазовск
Мариуполь
Берда
1
2
3
4

Северский Донец

Лугань

Деркул

Айдар