Соотношения между сторонами и углами прямоугольного треугольника

8 класс



Найти: 1) sin∠A,

Найти: 1) sin∠A, 2) cos∠A, 3) tg ∠ A

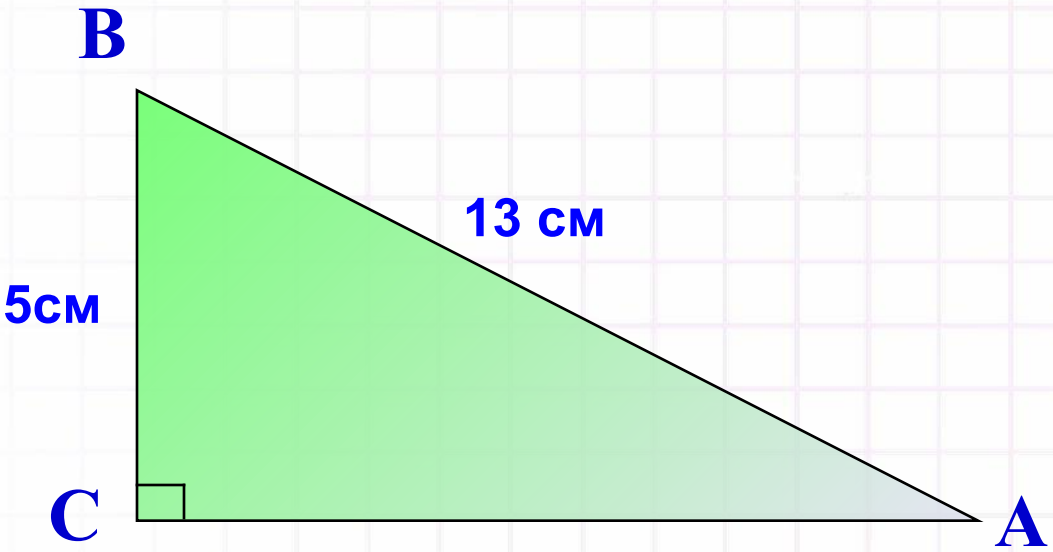



Дано: ABCD – трапеция, AB = 16 см,

∠BAD = 30°, ∠CDA = 45°

Найти: BK и MD.

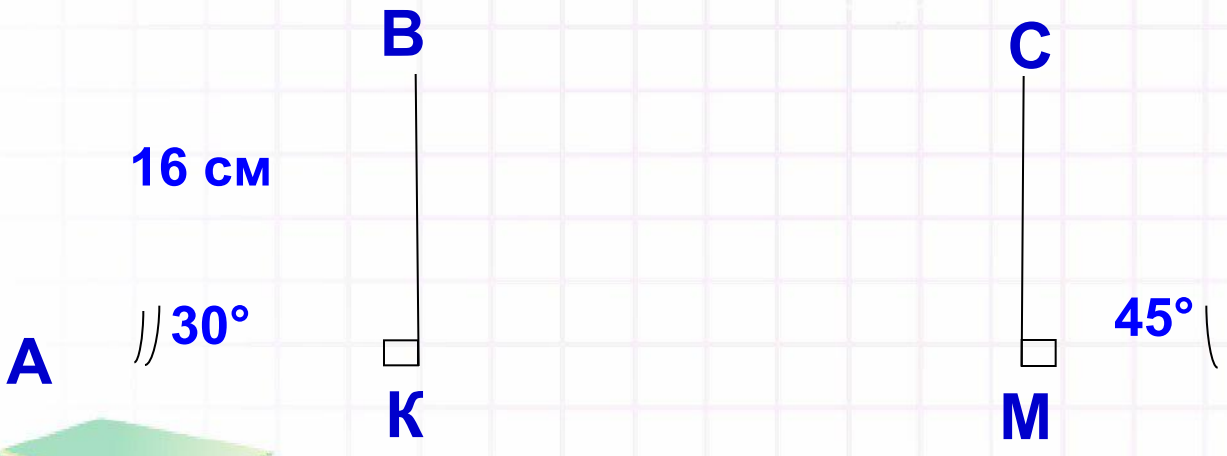

Ответ:

BK=MD=8см

$$\sin^2\alpha + \cos^2\alpha = 1$$

$$\sin\alpha = \sqrt{1-\cos^2\alpha}$$

$$\cos\alpha = \sqrt{1-\sin^2\alpha}$$



ЗНАЧЕНИЕ СИНУСА, КОСИНУСА И ТАНГЕНСА ДЛЯ УГЛОВ 30°, 45° И 60°



Значения синуса, косинуса и тангенса угла 30° .

Рассмотрим прямоугольный треугольник ABC:
∠A=30°, ∠B=60°

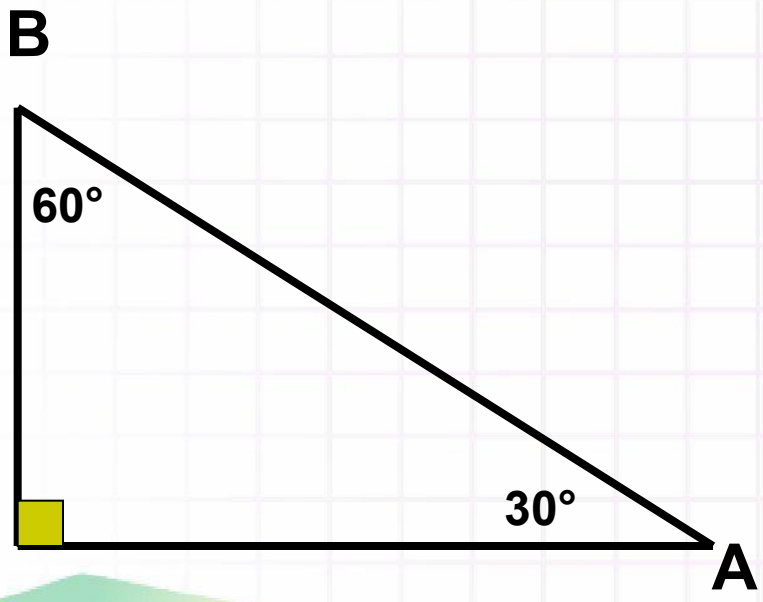

Так как катет, лежащий против угла 30°, равен половине гипотенузы, то

$$\frac{BC}{AB} = \frac{1}{2}$$

Но $\frac{BC}{AB} = \sin A = \frac{1}{2}$

Значит, $\sin 30^o = \frac{1}{2}.$

Из основного тригонометрического тождества получаем

$$\cos 30^o = \sqrt{1 - \sin^2 30^o} = \sqrt{1 - \frac{1}{4}} = \frac{\sqrt{3}}{2}$$

По 2-му тождеству находим

$$tg 30^o = \frac{\sin 30^o}{\cos 30^o} = \frac{1}{2} : \frac{\sqrt{3}}{2} = \frac{1 \cdot 2}{2 \cdot \sqrt{3}} = \frac{1}{\sqrt{3}} = \frac{\sqrt{3}}{3}$$

Значения синуса, косинуса и тангенса угла 60°.

Рассмотрим прямоугольный треугольник ABC:
∠A=30°, ∠B=60°

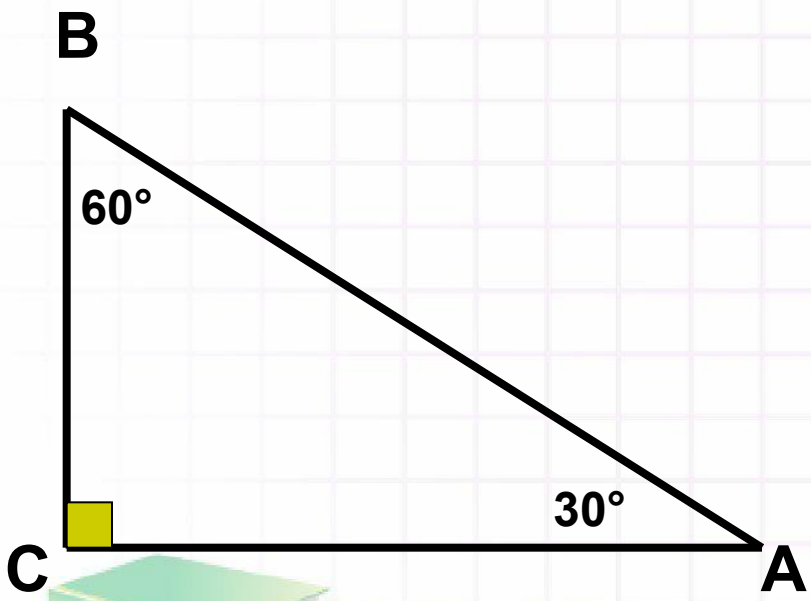

Так как катет, лежащий против угла 30°, равен половине гипотенузы, то

$$\frac{BC}{AB} = \frac{1}{2}$$

Или $\frac{BC}{AB} = \cos B = \frac{1}{2}$

Значит, $\cos 60^o = \frac{1}{2}$

Из основного тригонометрического тождества получаем

$$\sin 60^o = \sqrt{1 - \cos^2 60^o} = \sqrt{1 - \frac{1}{4}} = \frac{\sqrt{3}}{2}$$

По 2-му тождеству находим

$$tg\, 60^o = \frac{\sin 60^o}{\cos 60^o} = \frac{\sqrt{3}}{2} : \frac{1}{2} = \frac{\sqrt{3} \cdot 2}{2 \cdot 1} = \sqrt{3}$$

Значения синуса, косинуса и тангенса угла 45°.

Рассмотрим равнобедренный прямоугольный треугольник ABC: AC=BC, ∠A=45°, ∠B=45°

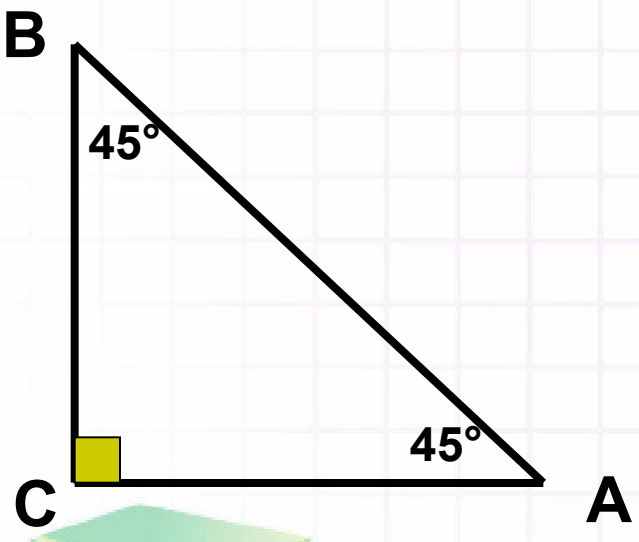

По теореме Пифагора

$AB^2 = AC^2 + BC^2 = 2\,AC^2 = 2\,BC^2$,

откуда

$$AC = BC = \frac{AB}{\sqrt{2}}$$

Следовательно,

$$\sin 45^o = \sin A = \frac{BC}{AB} = \frac{AB}{AB\sqrt{2}} = \frac{1}{\sqrt{2}} = \frac{\sqrt{2}}{2}$$

$$\cos 45^o = \cos A = \frac{AC}{AB} = \frac{AB}{AB\sqrt{2}} = \frac{1}{\sqrt{2}} = \frac{\sqrt{2}}{2}$$

$$tg\,45^o = tgA = \frac{BC}{AC} = 1$$

α	$30°$	$45°$	$60°$
$\sin\alpha$	$\frac{1}{2}$	$\frac{\sqrt{2}}{2}$	$\frac{\sqrt{3}}{2}$
$\cos\alpha$	$\frac{\sqrt{3}}{2}$	$\frac{\sqrt{2}}{2}$	$\frac{1}{2}$
$tg\alpha$	$\frac{\sqrt{3}}{3}$	1	$\sqrt{3}$

	30°	45°	60°
sin α	$\frac{\sqrt{1}}{2}$	$\frac{\sqrt{2}}{2}$	$\frac{\sqrt{3}}{2}$
cos α	$\frac{\sqrt{3}}{2}$	$\frac{\sqrt{2}}{2}$	$\frac{1}{2}$
tg α	$\frac{\sqrt{3}}{3}$	1	$\sqrt{3}$

Задача № 1.

Дано: Δ ABC (∠C=90°), AK- биссектриса ∠A,

∠CAK=15°, AC=$10\sqrt{3}$

Найти: AB
Найти: BC

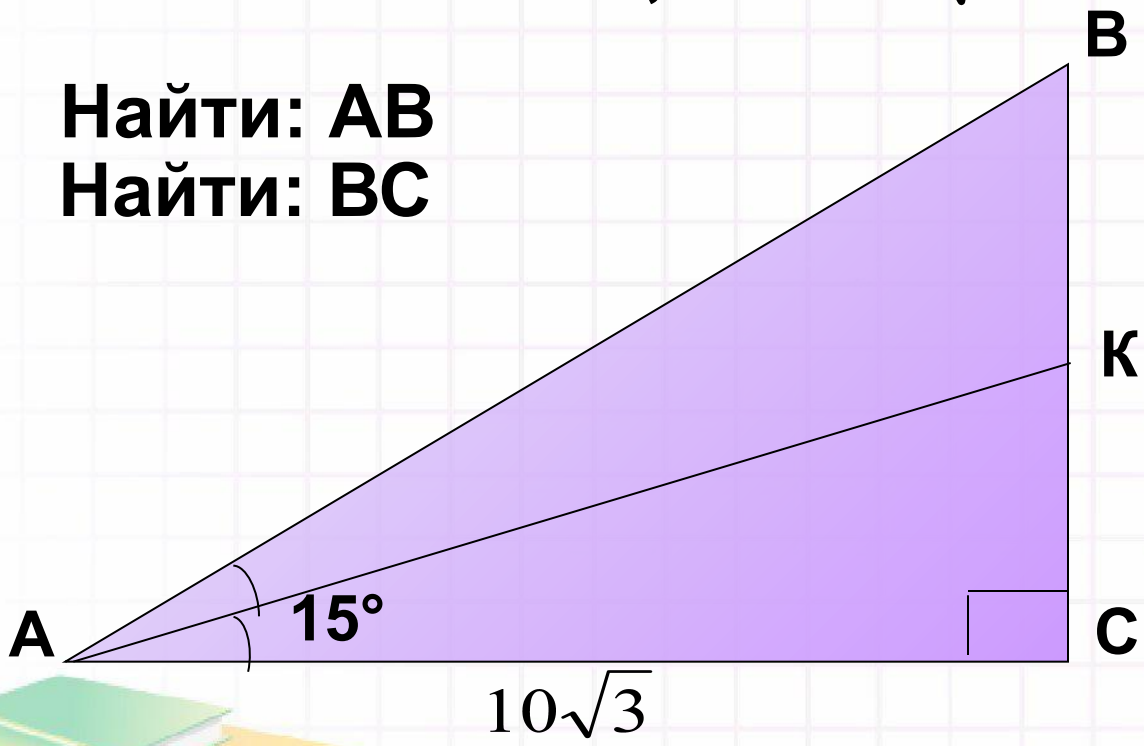

Ответ:BC=10 см



Задача № 2.

Дано: ABCD- квадрат, AC = 8 см

Найти: AB

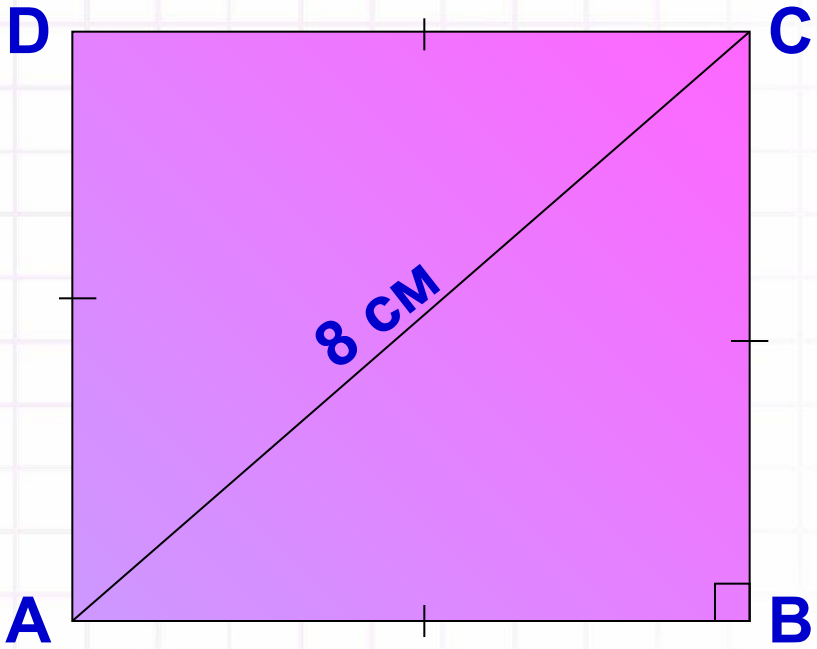

Задача № 3.

Дано: ABCD-трапеция,

BC = 60 см, BH = 12 см, ∠A =∠D = 60°

Найти: AD

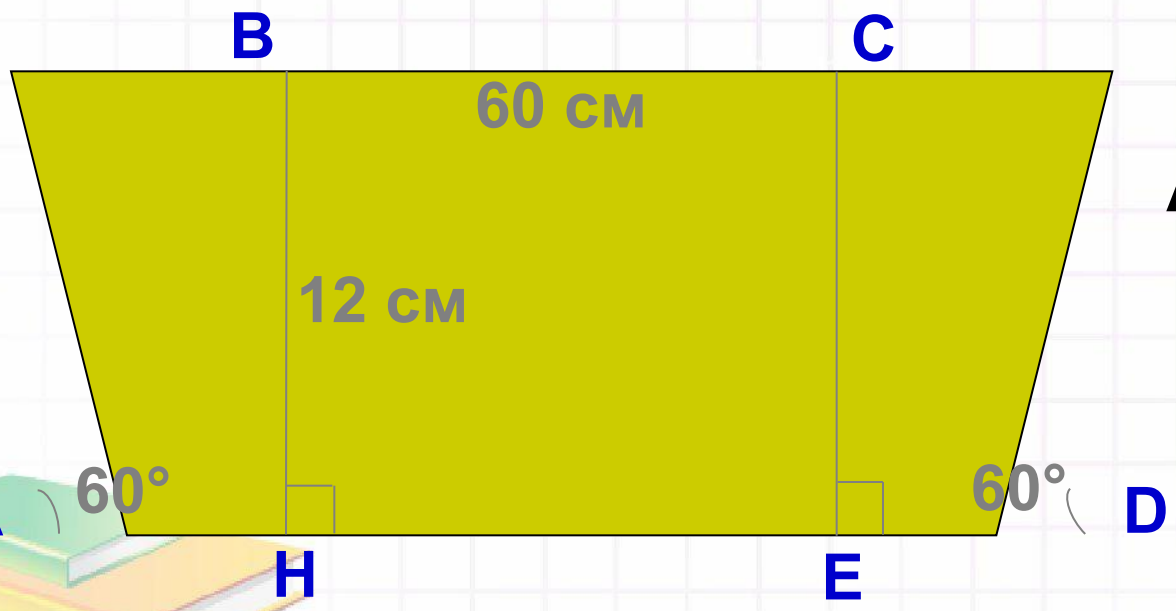

Ответ:

AD = $8\sqrt{3}+60$

Домашнее задание:

«4» или «5»

1) Изучить материал пункта 67.
2) Выучить табличные значения для углов 30°, 45°, 60 °.
3) Решить из учебника № 599, № 601, № 602.

«3» или «2»

1. Повторить § 4 пункт 66, изучить материал пункта 67.
2. Выучить табличные значения для углов 30°, 45°, 60 °.
3. Решить следующие задачи:

1)

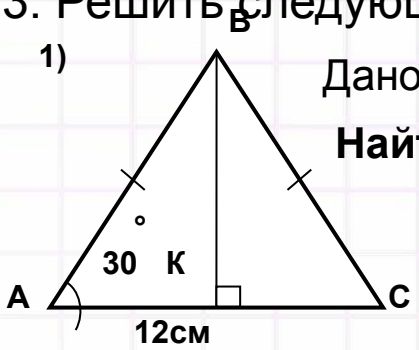

Дано: АС=12 см

Найти: АВ

2)

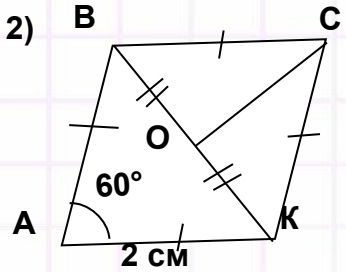

Дано:
АВСК - ромб.

Найти: ОС

1) Изучить материал пункта 67.
2) Выучить табличные значения для углов 30°, 45°, 60 °.
3) Решить из учебника № 599, № 601, № 602.

3) Решить из учебника № 601, № 602.

1	2	3

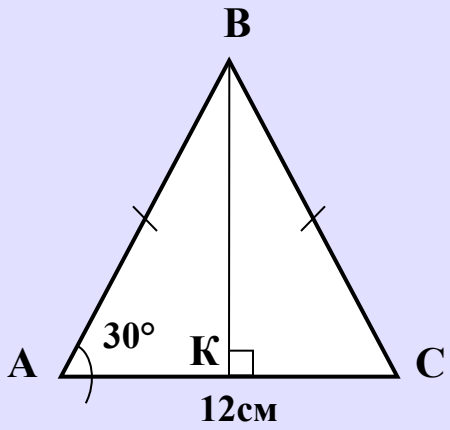

Дано:
АС=12 см

Найти: АВ

$$\frac{12}{\sqrt{3}} = 4\sqrt{3}$$

$$6\sqrt{2}$$

$$12\sqrt{3}$$

$$\frac{\sqrt{3}}{2}$$

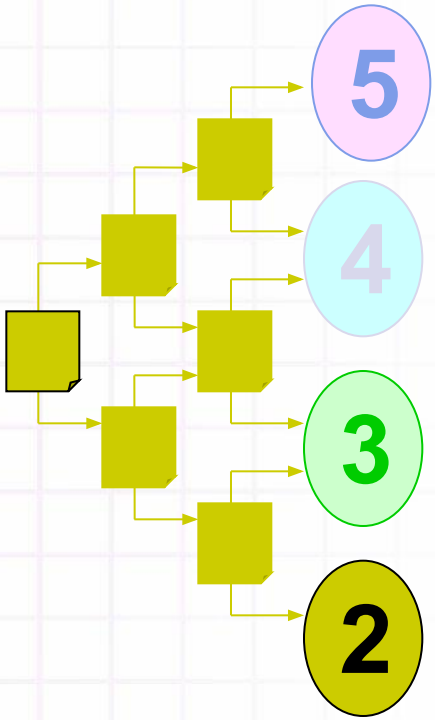

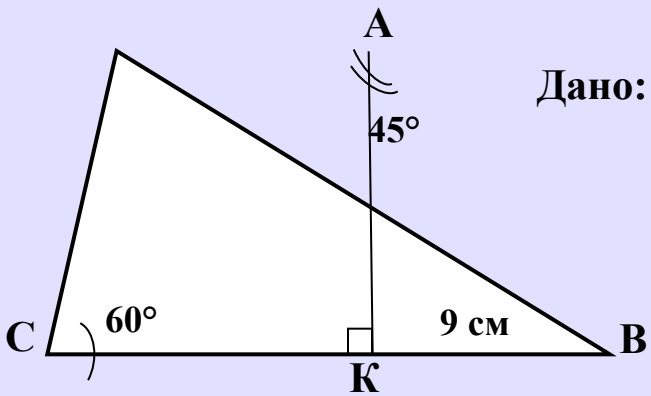

Дано: ВК=9 см

Найти: АС

$\frac{\sqrt{3}}{4}$

$\frac{10\sqrt{2}}{3}$

$\frac{18\sqrt{3}}{3} = 6\sqrt{3}$

18

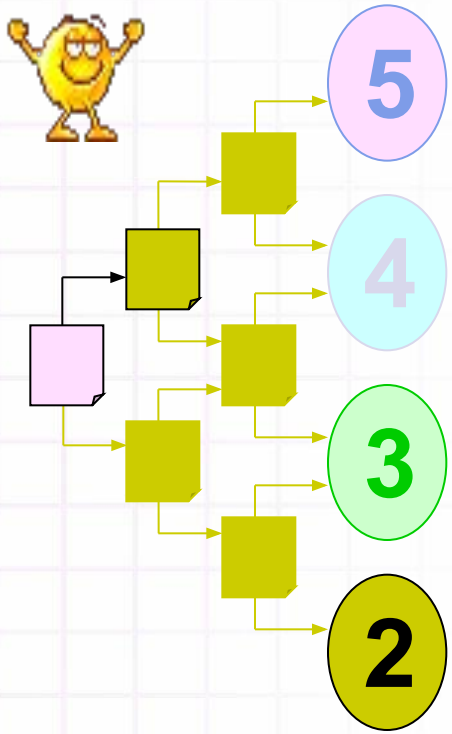

3

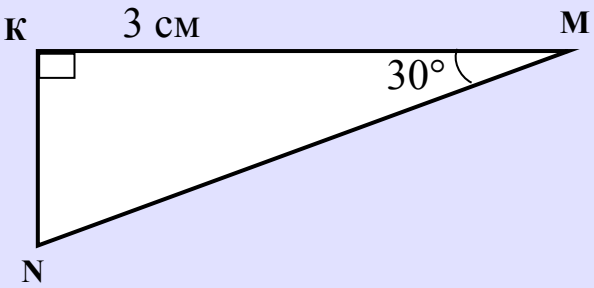

Найти: MN

$$\frac{2}{\sqrt{3}} = \frac{2\sqrt{3}}{3}$$

$$\frac{6}{\sqrt{3}} = 2\sqrt{3}$$

$$3\sqrt{3}$$

$$6$$

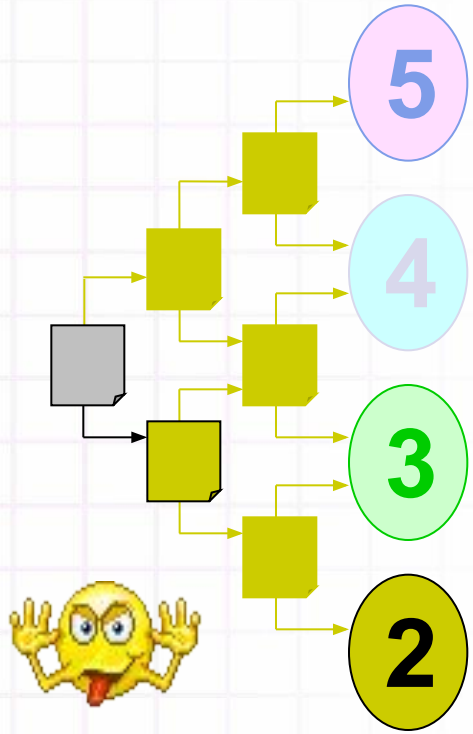

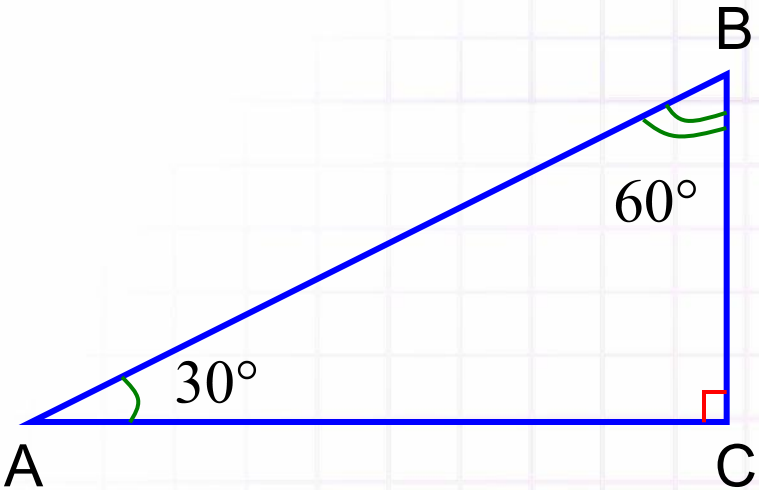

$$\angle A = 30^\circ \qquad \angle B = 60^\circ$$

$$\frac{BC}{AB} = \frac{1}{2}$$

$$\frac{BC}{AB} = \sin A = \sin 30^\circ$$

$$\frac{BC}{AB} = \cos B = \cos 60^\circ$$

$$\sin 30^\circ = \frac{1}{2}, \qquad \cos 60^\circ = \frac{1}{2}$$

$$\cos 30^\circ = \sqrt{1 - \sin^2 30^\circ} = \sqrt{1 - \frac{1}{4}} = \frac{\sqrt{3}}{2}$$

$$\sin 60^\circ = \sqrt{1 - \cos^2 60^\circ} = \sqrt{1 - \frac{1}{4}} = \frac{\sqrt{3}}{2}$$

$$tg 30^\circ = \frac{\sin 30^\circ}{\cos 30^\circ} = \frac{1}{\sqrt{3}} = \frac{\sqrt{3}}{3} \qquad tg 60^\circ = \frac{\sin 60^\circ}{\cos 60^\circ} = \sqrt{3}$$

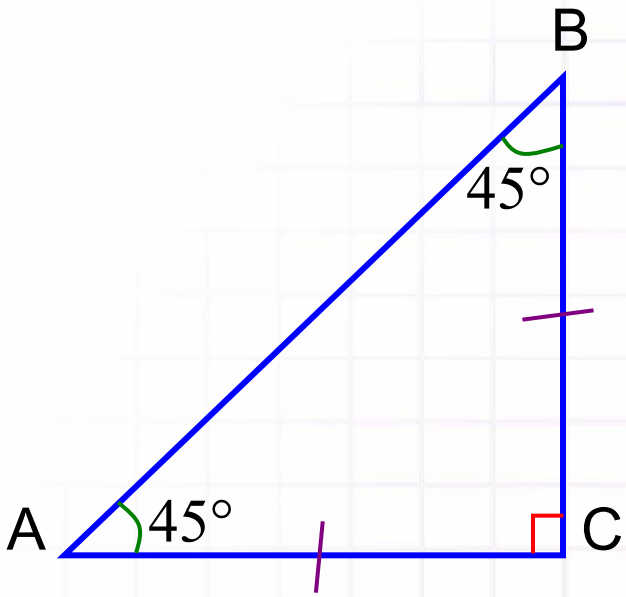

$$AC = BC$$

$$\angle A = \angle B = 45°$$

$$AB^2 = AC^2 + BC^2 = 2AC^2 = 2BC^2$$

$$AC = BC = \frac{AB}{\sqrt{2}}$$

$$\sin 45° = \sin A = \frac{BC}{AB} = \frac{1}{\sqrt{2}} = \frac{\sqrt{2}}{2}$$

$$\cos 45° = \cos A = \frac{AC}{AB} = \frac{1}{\sqrt{2}} = \frac{\sqrt{2}}{2}$$
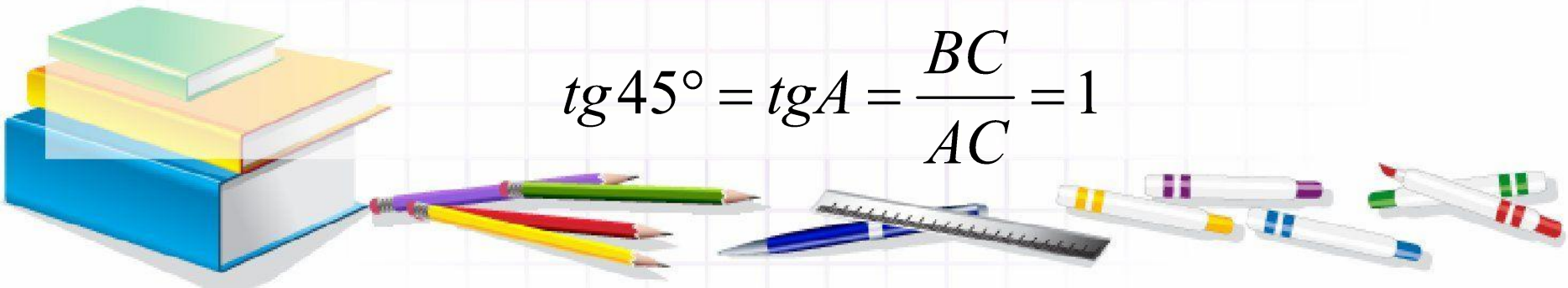
$$tg\,45° = tgA = \frac{BC}{AC} = 1$$