Закрепление знаний по теме «Нумерация. Числа от 1 до 10 и число 0 стр. 76-78

Урок 34-35

Школа России

Математика 1 класс

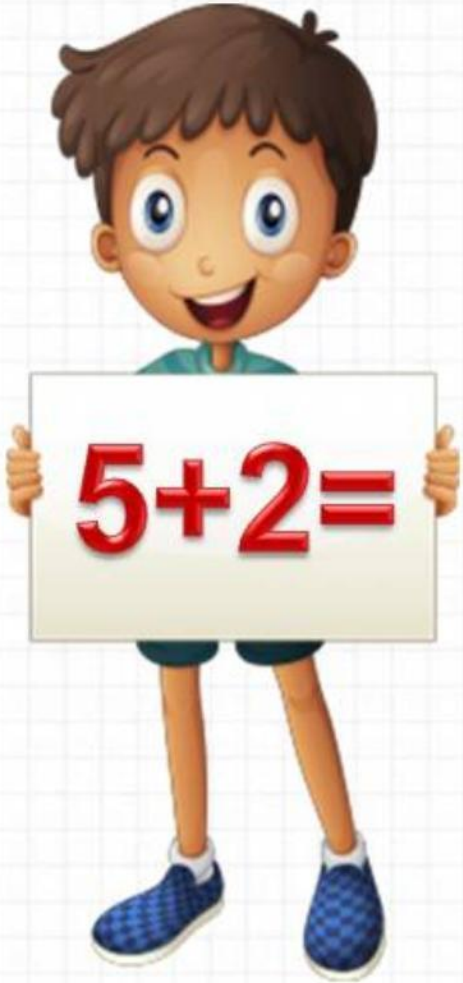

Устный счёт

Назови предыдущие числа.



Назови последующие числа.

Уменьши числа на 2.



Увеличь числа на 4.



Реши цепочки примеров.

10 – 3 + 2 =

9 – 2 - 4 =

Реши задачу.

Мы большущая семья.
Самый младший – это я.
Таня есть и Вася есть,
Юра, Шура, Зина, Маша,
И Наташа тоже наша.
Сколько детей в семье?

8

Реши задачу.

Дарит бабушка лисица
Трём внучатам рукавицы:
"Это вам на зиму, внуки,
рукавичек по две штуки.
Берегите, не теряйте,
Сколько всех, пересчитайте!"

6



На сколько больше жирафов, чем пингвинов?

НА 3

6 – 3 = 3



Сосчитай, если не трудно, примеры.

16 – 0 - 3 = 13

14 – 3 + 3 = 14

16 – 4 + 1 = 13

Физкультминутка

Ёж спешил к себе домой,
Нёс запасы он с собой.
Через кочки он скакал,
Быстро по лесу бежал.
Вдруг он сел и изменился,
В шарик круглый превратился.
А потом опять вскочил
И к детишкам поспешил.

Работа по учебнику

стр. 76 – 78

ЧТО УЗНАЛИ. ЧЕМУ НАУЧИЛИСЬ

Закрой квадратами примеры с ответом 4.

4 – 2	3 + 1	6 – 1
5 – 1	5 – 4	1 + 3
2 + 1	2 + 2	3 – 2

У почтальона в сумке было 10 писем. Одно письмо он уже отнёс по адресу. Сколько писем осталось в сумке у почтальона?

Мальчик решал пример 8 – 1, и у него получилось 9. В чём его ошибка?

Игра «Лесенка»

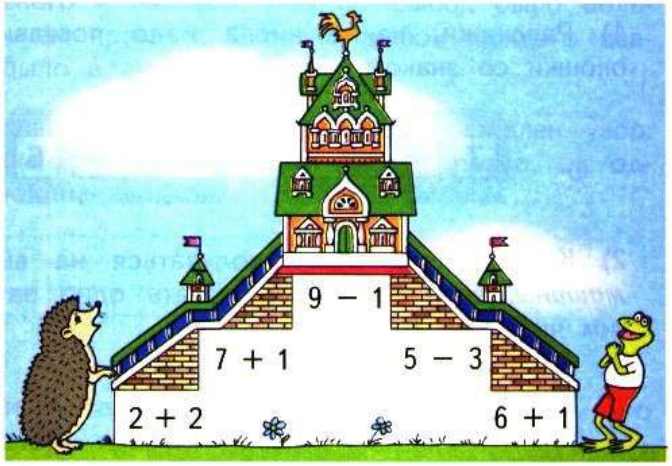

Закрой квадратами примеры с ответом 4.

4 – 2	3 + 1	6 – 1
5 – 1	5 – 4	1 + 3
2 + 1	2 + 2	3 – 2

У почтальона в сумке было 10 писем. Одно письмо он уже отнёс по адресу. Сколько писем осталось в сумке у почтальона?

Мальчик решал пример 8 — 1, и у него получилось 9. В чём его ошибка?

Игра «Лесенка»

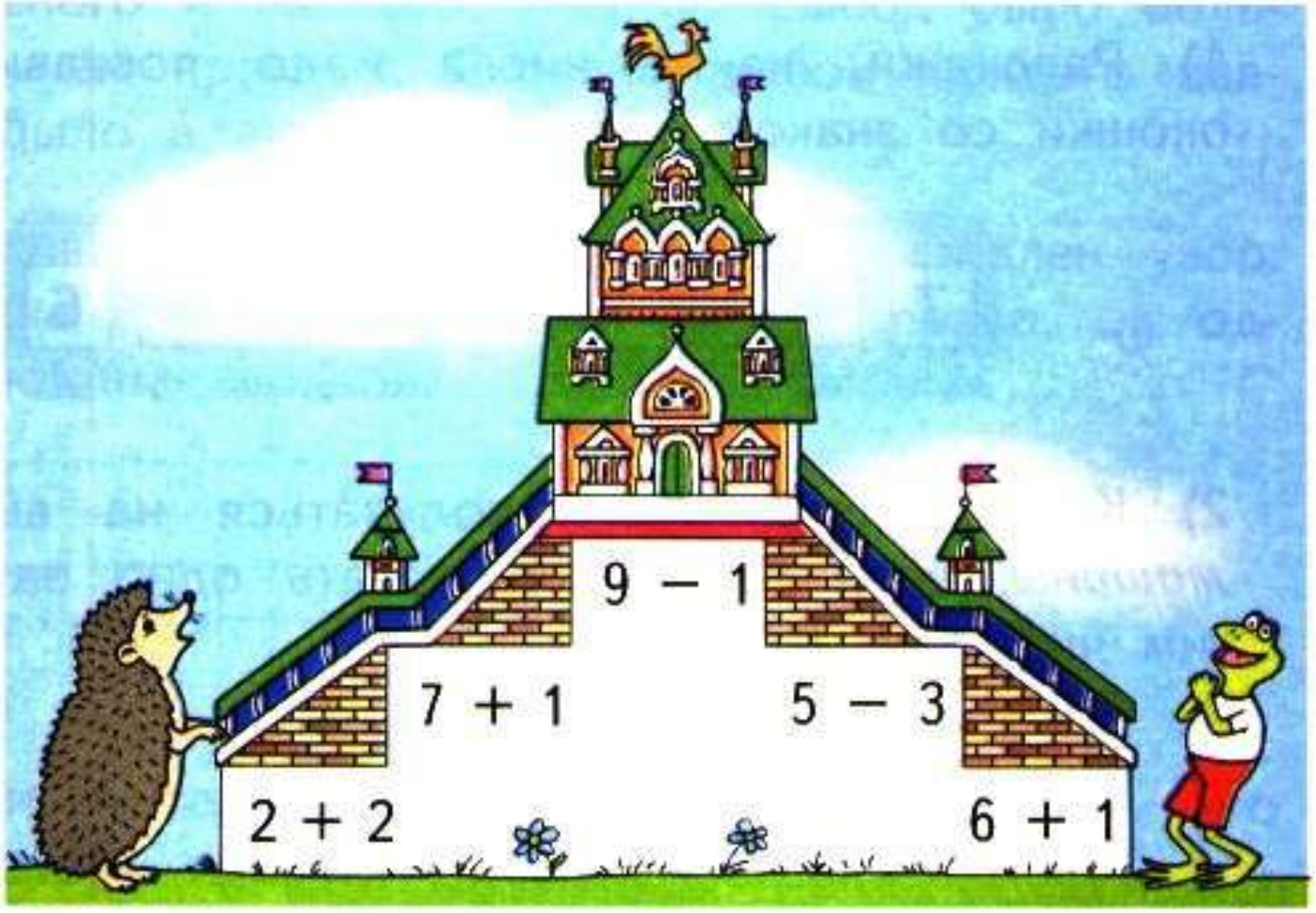

Закрой кругами примеры с ответом 5.

1 + 4	3 + 1	4 + 1
5 – 3	3 + 2	5 – 2
6 – 1	4 – 3	2 + 3

Как можно одним словом назвать все фигуры на чертеже?

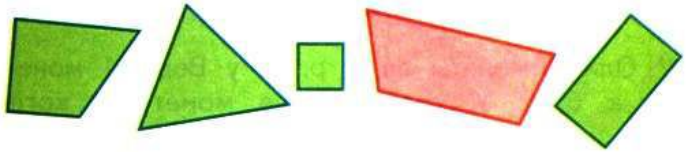

Какую фигуру можно назвать лишней?

Игра

Где моё место?

ЦЕПОЧКА:

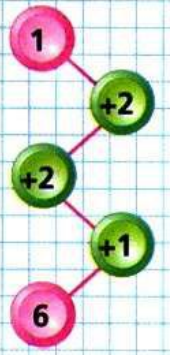

Закрой кругами примеры с ответом 5.

1 + 4	3 + 1	4 + 1
5 – 3	3 + 2	5 – 2
6 – 1	4 – 3	2 + 3

Как можно одним словом назвать все фигуры на чертеже?

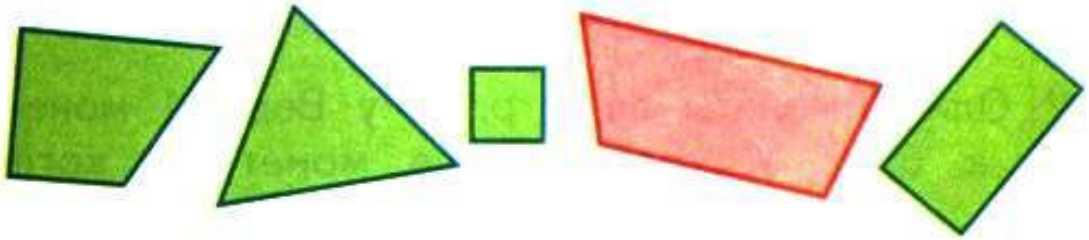

Какую фигуру можно назвать лишней?

Игра

Где моё место?

Закрепление изученного

Выберите примеры с ответом 3.

4-1	7-3	8-5
6-3	7+1	4+4

Какие геометрические фигуры ты видишь?



Найдите отличия.





Работа в тетради

стр. 28

- Выбери для каждого рисунка свою запись.

5

6 + 1 = ☐

5 + 2 = ☐

6 − 1 = ☐



- Вставь пропущенные числа.

3 − 3 =	8 + 0 =	9 + ☐ = 9
7 − ☐ = 0	5 − 0 =	9 − ☐ = 9
☐ − 6 = 0	0 + 4 =	☐ + 7 = 7

- Бабушка связала внукам носки, по одной паре каждому. Сколько внуков у бабушки?
Запиши: ☐

- 4 + 1 = 8 + 1 = 6 + 0 =
5 − 1 = 9 − 1 = 6 − 0 =

-

Выбери для каждого рисунка свою запись.

5

6 + 1 = ☐

5 + 2 = ☐

6 − 1 = ☐



- Вставь пропущенные числа.

3 − 3 =	8 + 0 =	9 + = 9
7 − = 0	5 − 0 =	9 − = 9
− 6 = 0	0 + 4 =	+ 7 = 7

- Бабушка связала внукам носки, по одной паре каждому. Сколько внуков у бабушки?
Запиши:

4 + 1 =	8 + 1 =	6 + 0 =
5 − 1 =	9 − 1 =	6 − 0 =

-

Задания на смекалку

Вася переломил плитку шоколада, потом переломил одну из получившихся частей. На сколько частей переломил Вася плитку шоколада?

3

Костя родился на 2 года раньше Васи. Сейчас Косте 5 лет. Сколько лет Васе?

3 ГОДА

Рефлексия

– Что нового узнали?
– Что бы хотели выполнить ещё?
– Какое задание оказалось для вас самым простым?
– Какое задание было выполнить труднее всего?
– Какое задание было самым интересным?

Конец